İLKOKUL 4.SINIF

HAFTALIK EV ÖDEVİ
13-17 Nisan

SİİRT İL MİLLİ EĞİTİM MÜDÜRLÜĞÜ
2020

1. Aşağıdaki cümlelerin hangisinde "ateş" sözcüğü mecaz anlamda kullanılmıştır?

A) Ebrar, evden çıkarken yemeği ateşte unuttuğunu hatırladı.
B) Yemeğin sonuna doğru mangalın ateşi sönmüştü.
C) Düşünmeden hareket ederek kendini ateşe atma.
D) Ateşin bulunması insanların hayatını kolaylaştırdı.

2. Aşağıdaki deyimlerden hangisi "sevinç" kavramıyla ilgili <u>değildir</u>?

A) Ağzı kulaklarına varmak
B) Havalara uçmak
C) Gözlerinin içi gülmek
D) Gözleri dönmek

3. Aşağıdaki cümlelerde koyu yazılmış kelimelerin hangisinde yazım yanlışı <u>yoktur?</u>

A) Onun davranışlarını herkes **<u>çocukca</u>** buldu.
B) Bu mutfak **<u>dolabı</u>** eskimiş, değiştirmeliyiz.
C) Elde **<u>avuçda</u>** ne varsa hepsini harcadılar.
D) Bir süreden beri bu **yurta** yerleşmişti.

4. "Ay adları; belli bir tarihi gösterdiklerinde büyük harfle, diğer durumlarda küçük harfle yazılır."

Aşağıdakilerden hangisinde bu kurala <u>uyulmamıştır</u>?

A) Atatürk'ü 10 Kasım 1938'de kaybettik.
B) Genel kurulumuz gelecek nisanda toplanacak.
C) 19 Mayıs 1919'da Kurtuluş Savaşı başlamıştır.
D) Erdek''e 2 aralık 2010'da geldik.

5. Hangi durumda büyük harf kullanılması <u>gerekmez</u>?

A) Özel isimlerin başında
B) Cümle başlarında
C) Noktadan sonra
D) Virgülden sonra

6. Aşağıdaki cümlelerin hangisinde pekiştirmeli sözcük kullanılmıştır?

A) Bugün kardeşimle yeni bir kitap aldık.
B) Bilimsel düşünmeyi öğrendiğimi bu çalışmada anladım.
C) Güneş ışıkları ile uyandım bu sabah erkenden.
D) Bu yaz masmavi denizde yüzme öğrenmeyi planlıyorum.

7. Aşağıdaki atasözlerinden hangisi "Bir işi yoluyla, yöntemiyle yapan kolay yapar." anlamında kullanılır?

A) İşleyen demir pas tutmaz.
B) Aklın yolu birdir.
C) Bugünün işini yarına bırakma
D) Yol ile giden yorulmaz

8. Aşağıdakilerin hangisinde verilen atasözleri birbirinden farklı anlamlardadır?

A) Keskin sirke küpüne zarar. – Öfkeyle kalkan zararla oturur.
B) Acele işin sonu pişmanlıktır. – Acele işe şeytan karışır.
C) Dost acı söyler. – Dost kara günde belli olur.
D) Sakla samanı gelir zamanı. – Ak akçe kara gün içindir.

9. Aşağıdaki cümlelerin hangisinde "soğuk" sözcüğü <u>mecaz anlamda</u> kullanılmıştır

A) Kış mevsimi çok soğuk geçti.
B) Vücudumuzu soğuktan korumalıyız.
C) Buz gibi soğuk bir su içtim.
D) O tür soğuk şakaları yapma.

10. "Tatlı" sözcüğü, hangi cümlede <u>gerçek anlamıyla</u> kullanılmıştır?

A) Tatlı sözlerle çocuğu sevindirdi.
B) Sabahleyin, tatlı uykusundan uyandı.
C) Sağlıklı, sevimli, tatlı bir çocuktu.
D) Hiç böyle tatlı elma yememiştim.

11. Aşağıdaki cümlelerin hangisinde ''de'' <u>yanlış</u> yazılmıştır?

A) Manavda elma kalmamış.
B) Onlarda yarın bize gelecek.
C) Bugün Tarık'la okulda kalacağım.
D) Yolda Berkant ile karşılaştım.

12. Aşağıdaki verilen cümlelerin hangisinde sebep - sonuç ilişkisi vardır?

A)Bize, erken geleceğini söylememişti.
B)Geç uyuduğundan, erken kalkamadı.
C) Kimseyi rahatsız etmeden ders çalışıyordu.
D) Arkadaşları, İrem'i çok seviyordu.

13. "Artık yoktur esirlik" **dizesindeki altı çizili sözcüğün** eş anlamlısı **hangi cümlede kullanılmıştır?**

A)Uzun yıllar tutsaklarla yaşadım.

B)Hiçbir şeye esir olmayalım.

C)Özgürlüğümü hiçbir şeye değişmem.

D)Şiirlerinde esaretten çok bahsetmiş.

14. Aşağıdaki kelimelerden hangisi sözlükte baştan üçüncü sırayı alır?

A) Yosun B) Yorgan

C) Yontma D) Yoksul

15. "Bıçak kemiğe dayanmak" **deyimi ile aynı anlamda olan deyim hangisidir?**

A) canına tak etmek B) zora binmek

C) güçlük çekmek D) gücüne gitmek

16. "Yalancıların asla gerçek dostu olamaz……hiç kimse onlara güvenmez." **cümlesinde boş bırakılan yere hangi sözcük getirilmelidir?**

A) ama B) çünkü

C) halbuki D) fakat

17. "Çalışıp **kazan** ki evdeki **kazan** kaynasın" **cümlesindeki altı çizili sözcükler arasındaki anlam ilişkisinin türü nedir?**

A) Eş anlamlılık B)Eş seslilik

C) Anlamdaşlılık D)Zıt anlamlılık

18. Aşağıdaki kelimelerden hangisinin zıt anlamlısı yoktur?

A) üzüm B) temiz

C) açık D) yavaş

19. Aşağıdaki cümlelerden hangisinin sonuna farklı **bir noktalama işareti konulmalıdır?**

A)Bahçedekini tanıyamadım, kimdi( )

B)Ödevini yaptı mı yapmadı mı bilmiyorum( )

C) Bunu bana niye söylemedin( )

D) Onun gitmeyeceğinden haber var mı( )

20. Aşağıdaki cümlelerin hangisinde ''ki'' yanlış yazılmıştır?

A)Bahçedeki çiçekler ansızın soldu.

B)Masanın üzerindeki kitaplar dağınıktı.

C)Zeki sınıfın birincisiydi.

D)Çantanda ki cetveli verir misin?

1. Aşağıdaki eşleştirmelerden hangisi <u>yanlıştır?</u>

A) Altmış beş milyon iki yüz yirmi bin yirmi beş – 65 220 025
B) Sekiz yüz doksan üç milyon beş yüz bin beş – 893 500 005
C) Altı milyon bin bir – 6 100 001
D) Dört yüz kırk yedi milyon yetmiş iki bin altmış iki – 447 072 062

2. 970 133 025 **doğal sayısı ile ilgili aşağıda verilenlerden hangisi <u>yanlıştır?</u>**

A) Binler bölüğünde 133 vardır.
B) "2" sayısının sayı değeri ile basamak değeri toplamı 22'dir.
C) Milyonlar basamağında 7 vardır.
D) Yüz binler basamağındaki sayının basamak değeri 100 000'dir.

3. Bir sayı örüntüsünün kuralı; her terim bir önceki terimin 2 katından 3 fazladır.

Buna göre, aşağıdakilerden hangisi bu kurala uyar?

A) 2, 7, 11, 22, 27 ***B)*** 4, 11, 25, 53, 109
C) 3, 9, 20, 45, 9 ***D)*** 5, 15, 25, 35, 45

4.

5	***8***	***14***	***23***	***?***	***?***

Yukarıdaki sayı örüntüsü devam ettirildiğinde aşağıdaki sayı çiftlerinden hangisi bu örüntünün devamı olur?

A)35, 50 ***B)*** 50, 65
C) 47, 58 ***D)*** 35, 53

5. Bir öğrenci birinci gün 36, ikinci gün 54 ve üçüncü gün 48 sayfa kitap okumuştur. Bu öğrenci günlük ortalama kaç sayfa kitap okumuştur?

A) 56 ***B)*** 48 ***C)*** 35 ***D)*** 46

6. Rakamları birbirinden farklı beş basamaklı en büyük çift sayı ile rakamları birbirinden farklı dört basamaklı en küçük tek sayının toplamı aşağıdakilerden hangisidir?

A) 109 998 ***B)*** 100 998

C) 100 999 ***D)*** 99 767

7. Ardışık 3 tek sayının toplamı51'dir. Bu sayıların en büyüğü kaçtır?

A) 17 ***B)*** 19 ***C)*** 21 ***D)*** 14

8. Okulumuzdaki kız öğrencilerin sayısı1788, erkek öğrencilerin sayısı ise kız öğrencilerin sayısından 224 fazla olduğuna göre okulumuzun mevcudu kaçtır?

A) 3800 ***B)*** 2012 ***C)*** 4700 ***D)*** 2912

9. Aşağıdaki işlemlerden hangisi <u>yanlıştır?</u>

A) 15 474 - 1692 = 13 782
B) 56 192 – 25 346 = 30 846
C) 45 607 - 2380 = 42 227
D) 28 190 - 6078 = 22 112

10. Hangi sayıya 8295 eklersek beş basamaklı en büyük sayıyı elde ederiz?

A) 95 870 ***B)*** 92 514
C) 95 087 ***D)*** 91 704

11. Kural= Çıkarma işleminin sonucu tahmin ederken sayıları en yakın onluğa yuvarlarsak sonuca en yakın tahminde bulunmuş oluruz. Selin; 874 – 448 işleminin sonucunu bu kurala göre buluyor.
Buna göre, Selin'in bulduğu tahmini sonuç ile işlemin gerçek sonucu arasındaki fark kaçtır?

A) 14 ***B)*** 6 ***C)*** 8 ***D)*** 5

12.

```
      1 6 A
    x   8 4
.     6 7 2
  +  1 3 B 4
    C 4 1 1 2
```

Yukarıdaki çarpma işlemine göre A + B + C işleminin sonucu kaçtır?

A) 10 ***B)*** 11 ***C)*** 17 ***D)*** 13

13. Şubat ayının 29 gün çektiği yıllara ne ad verilir?

A) Fazla yıl
B) Artık yıl
C) Bereketli yıl
D) 29'lu yıl

14. 1 saat 60 dakika olduğuna göre aşağıdaki bilgilerden hangisi <u>yanlıştır</u>?

A)10 saat= 600 dakika
B)20 saat= 1600 dakika
C)30 saat= 1800 dakika
D)40 saat= 2400 dakika

15. 1 dakika 60 saniye olduğuna göre aşağıdaki bilgilerden hangisi <u>yanlıştır</u>?

A) 10 dakika = 600 saniye
B) 20 dakika= 1200 saniye
C) 30 dakika= 1300 saniye
D) 40 dakika= 2400 saniye

16. "4 yıl tam olarak kaç gündür?" diye soran Selman Aslan öğretmenin, sorusunun cevabı aşağıdakilerden hangi yöntemle bulunabilir?

A) 4 x 365 gün= 1460 gün
B) 4x12 ay= 48 ay 48x30=1440 gün
C) 4x365 gün= 1460 + 1 gün= 1461 gün
D) 4x 52hafa = 208 x 7 gün =1456 gün

17. "1 gün kaç saniyedir?" sorusunun cevabı aşağıdakilerden hangi yöntemle bulunabilir?

A) 1 gün 60 dakikadır. 60 x 60 saniye= 3600 saniyedir.
B) 1 gün 365 dakikadır. 365 x 60 saniye=21900 saniyedir.
C) 1 gün 30 saattir. 30 x 60 dakika= 1800 dakikadır. 1800 dakika x 60 saniye= 108.000 saniyedir.
D) 1 gün 24 saat 24x60 dakika= 1440 dakika x 60 saniye = 86.400 saniyedir.

18. 4 yılda sadece bir kez doğum gününe rastlayan bir çocuk hangi gün doğmuştur?

A) 31 ocak
B) 29 şubat
C) 10 Kasım
D) 23 Nisan

19. 29 şubatta doğan Meryem, 4 kez doğum gününe rastlamıştır. Meryem en az ve en çok kaç yaşında olabilir?
A) 16-20
B) 16-19
C) 18-15
D) 12-15

20. Artık yılların özelliklerinden <u>değildir</u>?
A) O yıl şubat ayı 29 gün çeker.
B) Dört yılda bir kez gelir.
C) Son rakamları 0 olan tüm yıllar artık yıldır.
D) Yılı dörde kalansız olarak bölünebilir.

1. Vücudumuzda yapıcı onarıcı olarak görev yaparlar.

. Tüm besinlerde az ya da çok oranda bulunurlar.

. Hastalıklara karşı direncimizi artırırlar.

Hangi seçenekte yukarıda özellikleri verilen besin içeriklerinden biri yoktur?

A-) Vitaminler

B-) Su

C-) Proteinler

D-) Karbonhidratlar

2. Hangi seçenekteki besinlerin tamamı düzenleyici besin grubuna girer?

A-) Mısır, havuç, süt

B-) Elma, soğan, maden suyu

C-) Portakal, pekmez, bal

D-) Ekmek, yumurta, tereyağı

3. Hangi seçenek yağlara ait bir özelliği bildirmez?

A-) Enerji verici olarak kullanılabilirler.

B-) Bitkilerden ve hayvanlardan elde edilirler.

C-) Yapıcı ve onarıcı olarak görev yaparlar.

D-) Karbonhidratların fazlası vücudumuzda yağ olarak depolanır.

4. Seçeneklerden hangisi sigaranın neden olduğu hastalıklardan biri değildir?

A-) Akciğer kanseri

B-) Solunum Yolları hastalıkları

C-) Kalp ve damar tıkanıklığı

D-) Göz bozukluğu

5. Yumurta
Ekmek
Fındık

Yukarıda verilen besinler, protein, karbonhidrat ve yağ bakımından zengin olduğu gruba ayrıldığında aşağıdakilerden hangisi doğru olur ?

	Karbonhidrat	Yağ	Protein
A.	Ekmek	Fındık	Yumurta
B.	Fındık	Yumurta	Ekmek
C.	Yumurta	Fındık	Ekmek
D.	Ekmek	Yumurta	Fındık

6) Seçenektekilerden hangisi daha fazla alkol kullanan birinde görülür?

A-) Siroz

B-) Grip

C-) Kuduz

D-) Bronşit

7. Hangi seçenekte besin içerikleri ve öncelikli görevleri doğru eşleştirilmiştir?

A) Enerji verici_____ __Proteinler

B)Yapıcı Onarıcı_____ Karbonhidratlar

C) Düzenleyici _____Vitaminler

D) Enerji verici_____Vitaminler

8. Vücudumuzdaki yaralanmaların daha çabuk iyileşmesi için hangi seçenekteki besin türü tüketilmelidir?

A-) Protein B-) Yağ

C-) Karbonhidrat D-) Mineral

9. Seçeneklerden hangisi kahvaltı masamızdaki protein kaynaklarından biridir?

A-) Peynir B-) Reçel

C-) Zeytin D-) Ekmek

10. I. Proteinler II. Vitaminler

III. Karbonhidratlar

Yukarıdaki besin türlerinden hangisi ya da hangileri vücudumuzda düzenleyici görevi yapar?

A) Yalnız I B) Yalnız II

C) Yalnız III D) I, II ve III

11. Bütün besinlerde bulunur. Vücudumuzun yaklaşık % 75'ini oluşturur. Besinlerin sindiriminde, iletiminde ve boşaltımında kullanılır. Düzenleyici olarak görev yapar. Günde en az iki litre tüketilmelidir.

Yukarıdaki açıklama aşağıdakilerden hangisi için verilmiştir?

A-) Yağ B-) Mineral

C-) Su D-) Protein

12. Minerallerle ilgili aşağıdakilerden hangisi <u>yanlıştır?</u>

A-) Vücudumuza enerji verir.

B-) Süt ve süt ürünlerinde kemiklerimizi güçlendiren mineraller bulunur.

C-) Bazı minerallerin eksikliği kansızlığa yol açar.

D-) Düzenleyicidir.

13. Ülkemizde alkol ve sigaranın zararlarına dair kampanyalar yürüten öncü kuruluşumuz hangisidir?

A-) Kızılay B-) Yeşilay

C-) TÜBİTAK D-) Astronomi Derneği

14. Aşağıdaki yiyeceklerden hangisi içeriğindeki besin yönünden ötekilerden farklıdır?

A-) Pasta B-) Patates

C-) Ekmek D-) Yumurta

15. Şeker ve şekerli yiyecekler, ekmek, makarna, unlu besinler, patates, tahıllar gibi besin maddelerinde en çok hangi besin içeriği bulunur?

A-) Yağlar B-) Mineraller

C-) Karbonhidratlar D-) Vitaminler

16. "Fazla enerji gerektiren işler yaptığımızda karbonhidratlardan aldığımız enerji yetersiz kalır. Bu gibi durumlarda gereksinim duyduğumuz enerjiyi diğer bir enerji kaynağı olan bu içerikten sağlarız. Bunlar, bitki ve hayvanlardan elde edilir." Yukarıdaki anlatımda aşağıdaki besin içeriklerinden hangisi anlatılmıştır?

A-) Vitaminler B-) Yağlar

C-) Proteinler D-) Mineraller

17. Meyve ve sebzelerde en çok bulunan besin içeriği aşağıdakilerden hangisidir?

A-) Proteinler B-) Mineraller

C-) Karbonhidratlar D-) Vitaminler

18. Proteinlerle ilgili aşağıdaki ifadelerden hangisi <u>yanlıştır?</u>

A-) Proteinler vücudumuzun anlık enerji ihtiyacını karşılar.

B-) Proteinler vücudumuzun büyümesi, gelişmesi, onarılması gibi önemli görevler üstlenmiştir.

C-) Proteinler; et, süt, tavuk, balık, peynir, tahıllar ve baklagiller gibi besinlerde bulunur.

D-) Mineraller ve su bu görevleri sırasında proteinlere yardımcı olur.

19. Aşağıdakilerden hangisi besinleri saklama yöntemlerinden biri <u>değildir?</u>

A-) Konserve yapma

B-) Kurutma

C-) Isıtma

D-) Dondurma

20)"Annesi Yusuf'a normalden fazla karbonhidrat içeriği olan besinlerden tüketmesini söylüyor." Annesinin Barış'a önerisinin sebebi ne olabilir?

A-) Yusuf'un gözlerinin iyi görmesi.

B-) Yusuf'un yaralanmış olması.

C-) Yusuf'un spor yapması.

D-) Yusuf'un zeki olması.

1. -Şeker, baklava, kolonya

-Büyüklerin elini öpme

-Dargınların barışması

Yukarıda verilen unsurlar, hangi milli kültür ögesine aittir?

A-Milli bayramlar B-Kına geceleri

C-Sünnet düğünleri D-Dini bayramlar

2. Bir ürünün üretim, dağıtım ve tüketim aşamaları vardır. Aşağıdakilerden hangisi bir ürünün dağıtım aşamasında kullanılan taşıtlardan biri değildir?

A-Gemi B-Tren C-Kamyon D-Balon

3. -Projeksiyon

-Akıllı tahta

-Tomografi

-Bilgisayar

Yukarıdaki teknolojik aletler kullanım alanlarına göre sınıflandırıldığında hangisi farklı grupta olur?

A-Projeksiyon B-Akıllı Tahta

C-Tomografi D-Bilgisayar

4. "Her milletin kutladığı özel günler ve bayramlar vardır."

Aşağıdakilerden hangisi Türk kültürüne ait özel günlerden biri değildir?

A-Noel B-Hıdırellez

C-Kurban Bayramı D-Nevruz

5. Siyasi haritalardan yararlanılarak hangi bilgiye ulaşamayız?

A-İl sınırlarına B-İlçe adlarına

C-İl merkezlerine D-İldeki önemli dağlara

6. Toplumda kuşaktan kuşağa aktarılan kültürel alışkanlık ve davranışlara gelenek denir.

Buna göre;

I- misafire ikramda bulunmak

II-Bayramlarda büyükleri ziyaret etmek

III-Bayramlarda tatile gitmek

IV-düğünlerde geline takı takmak

Yukarıdakilerden hangileri Türk gelenekleridir?

A-I,II,III ,IV B-I,II,IV

C-II,IV D-I,III,IV

7. Aşağıdakilerden hangisi sözlü tarih çalışması yapmak isteyen bir kişinin yapması gereken ilk aşamadır?

A-Görüşeceği konuyu ve kişiyi belirleme

B-Görüşme yerini belirlemek

C-Görüşmeyi kayıt etmek

D-Görüşmede soracağı soruları belirlemek

8. Kültür ile ilgili aşağıda verilen ifadelerden hangisi <u>yanlıştır</u>?

A-Milletlerin kültürleri arasında benzerlikler olabilir.

B-Kültür zaman içinde kesinlikle değişiklik göstermez.

C-Kültür nesilden nesille aktarılır.

D-Her milletin kendine özgü bir kültürü vardır.

9. I-Atatürk'ün Samsun'a çıkışı
II-Cumhuriyetin ilanı

III-TBMM'nin açılması

IV-Başkomutanlık Meydan Savaşı

Yukarıda verilen olayların kronolojik sıralaması hangi seçenekte verilmiştir?

A- I,II, III, IV B- I,III,IV,II
C-I,IV,III,II D-IV,I,III,II

10. Türkiye fiziki haritasını inceleyen Bilal;

I-Hava olayları

II-Dağların dağılımı

III-Vadi, plato, göller

özelliklerinden hangilerini inceleyebilir?

A- I,II B- I,II,III C-II,III D-I,III

11. Hava olaylarını araştıran ve inceleyen bilim insanlarına ……..... denir.

A-Paleontolog B-Klimatolog
C-Meteorolog D-Zoolog

12. Bazı doğal güzelliklerimiz, doğa olaylarının etkisiyle ortaya çıkmıştır. Bu doğal güzelliklere, doğal çevre unsurları diyoruz.

Aşağıdaki yerlerden hangisi doğal çevre unsurlarına örnek olarak <u>verilemez</u>?

A-Ilısu Barajı

B-Ağrı Dağı

C-Pamukkale Travertenleri

D-Manavgat Şelalesi

13. Bir yerin kuş bakışı görünüşünün kağıt üzerine kabataslak çizilmesine kroki denir.

Buna göre aşağıda verilenlerden hangisinin krokisini çizmek daha zordur?

A-Evimizin bulunduğu sokağın

B-Okulumuzun bulunduğu caddenin

C-Yaşadığımız şehrin

D-Sınıfımızın bulunduğu koridorun

14. Yemeklerimiz de milli kültür ögelerimizdendir. Ülkemizin farklı şehirlerinde o şehre ait özel yemekler vardır.

Aşağıdaki şehir-yemek eşleştirmelerinden hangisi <u>yanlıştır</u>?

A-Siirt -büryan kebabı

B-Kayseri -mantı

C-Bursa -İskender kebabı

D-Batman -lahmacun

15. Her ülkenin tarihinde ülkesi uğruna canlarını hiçe sayan, asla unutulmayacak kahramanlar vardır. Buna göre;

I-Seyit Onbaşı

II-Şahin Bey

III-Tayyar Rahmiye Hanım

isimlerinden hangileri Milli Mücadele kahramanlarımıza aittir?

A-I, II B-I,II,III C-II,III D- I,III

16. Ayşe: 10 yaşındayım. Siirt'te yaşıyorum. Boyum 138 cm. Çekirgelerden çok korkarım.

Mehmet: 10 yaşındayım. İzmir'de oturuyorum. Boyum 140cm. Köpekleri çok severim.

Bu açıklamalara göre aşağıdakilerden hangisi <u>söylenemez</u>?

A-Benzer özellikleri yoktur.

B-Sosyal, fiziksel ve duygusal özelliklerinden söz etmişlerdir.

C-Birbirinden farklı özelliklere sahiptirler.

D-Fiziksel özellikleri birbirinden farklıdır.

17."Bu antlaşma ile Kurtuluş Savaşını kazandığımız, bütün dünya devletleri tarafından kabul edildi.

Yukarıda sözü edilen antlaşma aşağıdakilerden hangisidir?

A-Mondros Ateşkes Antlaşması

B-Gümrü Antlaşması

C-Lozan Barış Antlaşması

D-Ankara Antlaşması

18. İnsanların kontrolü dışında gelişen sel, çığ, deprem, heyelan gibi olaylara doğal afet denir.

Doğal afetlere dair hangi bilgi <u>yanlıştır</u>?

A-Doğal afetlerden korunmak için önlemler alınabilir.

B- Bütün doğal afetlere insanlar sebep olur.

C-Ağaçlandırma heyelan, çığ ve sel gibi doğal afetleri önleyici olabilir.

D- Doğal afetlerin özellikle depremin ne zaman olacağı belli değildir

19. Günümüzde teknoloji yardımıyla geri dönüşüm yapılarak doğal kaynakları korumak mümkündür.

Aşağıdakilerden hangisi geri dönüşümü olabilen maddelerden biri <u>değildir?</u>

A-plastik şişe

B-Cam bardak

C-Sebze ve meyve kabukları

D-Gazete

20. **Aşağıdakilerden hangisi korona virüsünden korunmak için alınabilecek tedbirlerden biri <u>değildir</u>?**

A-El temizliğine dikkat etmek

B- Bağışıklık sisteminin güçlendirmek için beslenmemize dikkat etmek

C-Kapalı ve kalabalık alanlardan uzak durmak

D-Akrabalarımızla bol bol bir araya gelerek sevgimizi göstermek

1- Answer the questions using the given informations and pictures. (Soruları verilen resme ve bilgilere bakarak cevaplayalım.)



(Murat ,10, Denizli)

a) Where is he from ?

_____

b) What's his nationality?

_____

c)Where does he live?

_____

d) How old is he?

_____

e) What's his name?

_____

2. Answer the questions. (Soruları cevaplayalım.)

a) Where are you from?

_____

b) What's your nationality?

_____

c) Where do you live?

_____

3. Answer the question according to the map (Haritaya göre soruları cevaplayalım.)

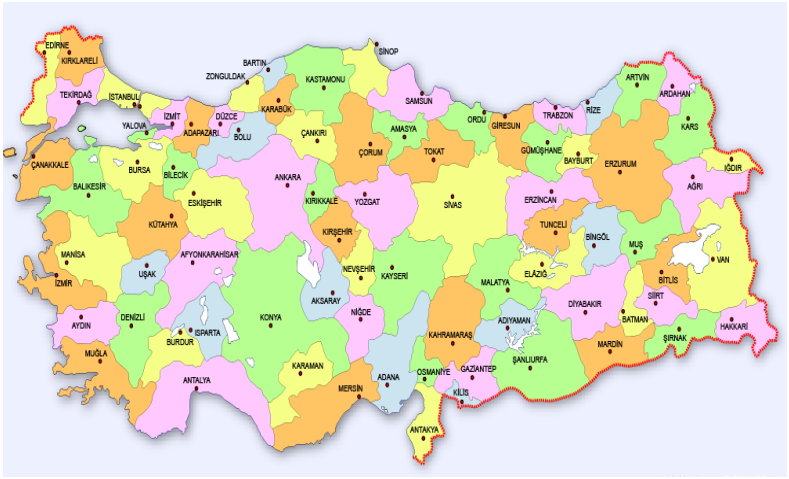

a)Where is Manisa?

_____

b)Where is Adana ?

_____

c)Where is Van?

_____

d)Where is Sinop?

_____

e)Where is Antalya?

_____

4. Fill in the blanks with the words.
(Boşlukları kelimelerle doldurun)

Kamil, 10, Siirt,
Turkey, Turkish,

My name is _____. I'm from

_____.

I'm _____.I'm_____

years old. I live in _____.

5. Match the countries and nationalities.(Ülkeleri ve milliyetleri eşleştirelim)

COUNTRIES	**NATIONALITIES**	
1. Japan	Chinese	Turkish
2. Britain		
3. USA	British	Japanese
4. Turkey		
5. Russia	Russian	Italian
6. Germany		
7. Italy	German	American
8. China		

6. Match the questions with suitable answers.

1-Where are you from?	a-I think so.
2-Is she English?	b-I'm from France.
3-Where is he from?	c-She is from Pakistan.
4-Are you French?	d-Maybe.
5-Where is Samsun?	e- Yes, I'm.
6-Is he Japanese?	f-Samsun is in the North.
7-Where is she from?	g-No, he isn't.
8-Is she Chinese?	h-He is from Japan.

1-……. 2-…….. 3-…….. 4-……..

5-…….. 6-……. 7-…….. 8-……..

7. Circle the odd one(Farklı olanı işaretleyelim.)

Brazil- Japan - India - Italian

Spanish - Greece - Germany – Egypt

English - Russian - the USA - Italian

Japanese - Chinese - Pakistani –Turkey

Iranian - Egypt - France - Spain

8. Answer the questions. (Soruları cevaplayalım.)

1. R__ A__I__A__C__N__M__E

Verilen harflerden oluşturulan anlamlı kelime aşağıdakilerden hangisidir?

A) ARABICAN
B) BARECINA
C) AMERICAN
D) NACARIBA

2. Aşağıdaki seçeneklerden farklı olanı işaretleyiniz.

A) Spain
B) Brazil
C) French
D) China

3. Hangi eşleştirme yanlıştır?

COUNTRIES	NATIONALITIES
A) Turkey	Turkish
B) USA	English
C) Greece	Greek
D) Brazil	Brazilian

CEVAP ANAHTARI

Türkçe

1	2	3	4	5	6	7	8	9	10	11	12	13	14	15	16	17	18	19	20
C	D	B	D	D	D	D	C	D	D	B	B	A	B	A	B	B	A	B	D

Matematik

1	2	3	4	5	6	7	8	9	10	11	12	13	14	15	16	17	18	19	20
C	B	B	A	D	D	B	A	C	D	B	D	B	B	C	C	D	B	A	C

Fen Bilimleri

1	2	3	4	5	6	7	8	9	10	11	12	13	14	15	16	17	18	19	20
D	B	C	D	A	A	C	A	A	B	C	A	B	D	C	B	D	A	C	C

Sosyal Bilimler

1	2	3	4	5	6	7	8	9	10	11	12	13	14	15	16	17	18	19	20
D	D	C	A	D	B	A	B	B	C	C	A	C	D	C	A	C	B	C	D

İngilizce

1. Answer the questions using the given informations and pictures. (Soruları verilen resme ve bilgilere bakarak cevaplayalım.)



a) He is from Turkey
b) he is Turkish.
c)He lives in Denizli.
d)He is ten years old.
e)He is Murat

Murat ,10, Denizli

2- Answer the questions. (Soruları cevaplayalım.)

A) I'm from Turkey.
B) I'm Turkish.
C) I live in Siirt.

3- Answer the question according to the map (Haritaya göre soruları cevaplayalım.)

a)Manisa is in the West.
b)Adana is in the South.
c)Van is in the East.
d) Sinop is in the North.
e) Antalya is in the South.

4- Fill in the blanks with the words (Boşlukları kelimelerle doldurun)

My name is _____Kamil_____. I'm from _____Turkey____.

I'm ___Turkish_____.I'm_____ten____ years old. I live in ____Siirt____.

5- Match the countries and nationalities.(Ülkeleri ve milliyetleri eşleştirelim)

COUNTRIES	NATIONALITIES
1. Japan Japanese	8 Chinese
2. Britain British	4 Turkish
3. the USA American	6 German
4. Turkey Turkish	3 American
5. Russia Russian	2 British
6. Germany German	1 Japanese
7. Italy Italian	5 Russian
8. China Chinese	7 Italian

6- Match the questions with suitable answers.(Soruları uygun cevaplarla eşleştirelim.)

1- B 2- A 3- H 4- E 5- F 6- G 7- C 8- D

7- Circle the odd one(Farklı olanı işaretleyelim.)

Brazil - Japan - India - Italian Spanish - Greece - Germany – Egypt

English - Russian - the USA - Italian Japanese - Chinese - Pakistani

Turkey Iranian - Egypt - France - Spain

8- Answer the questions(Soruları cevaplayalım.)

1-C 2- C 3- B

Çalışmada Emeği Geçen Öğretmenlerimiz

Nevzat YILMAZ

Mukaddes KAYA

Seda AYDINLI

Onur ÇELEPÇIKAY

Mesut ERDOĞAN